わか杉「算数」シート 小２－16－②　　秋田県教育委員会

＜分けた大きさのあらわし方をしらべよう②＞

く　み	ば　ん	なまえ

1　つぎの　それぞれの　形について，もとの　大きさの $\frac{1}{2}$ の　大きさになる　ぶぶんに色を　ぬりましょう。

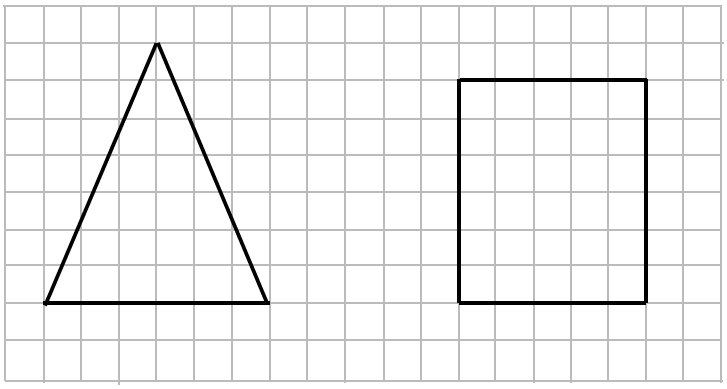

2　㋐は，もとの　大きさの $\frac{1}{2}$ と　いえません。　わけを　書きましょう。

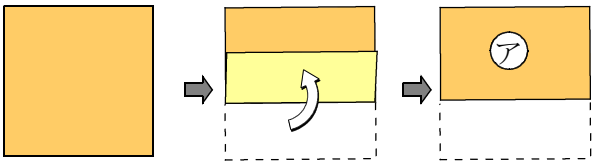

わけ

わか杉「算数」シート 小２－16－②　　秋田県教育委員会

＜分けた大きさのあらわし方をしらべよう②＞

こたえ

く　み	ば　ん	なまえ

1　つぎの　それぞれの　形について，もとの　大きさの $\frac{1}{2}$ の　大きさになる　ぶぶんに色を　ぬりましょう。

（例）

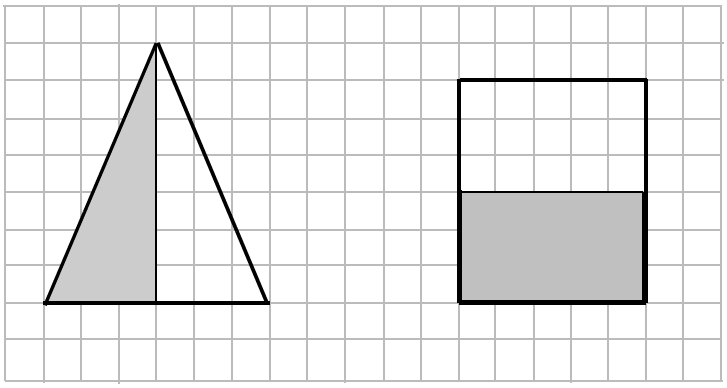

2　㋐は，もとの　大きさの $\frac{1}{2}$ と　いえません。　わけを　書きましょう。

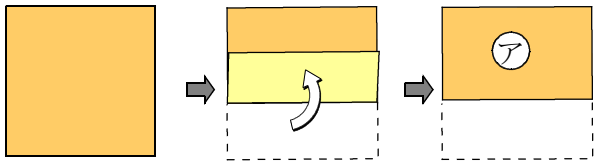

わけ　（例）

・はんぶんにおっていないから

・おなじ大きさに分けていないから

※おうちのひとにも　みてもらいましょう。