わか杉「算数」シート 小２－15－③　　秋田県教育委員会

＜図をつかって考えよう③＞

く　み	ば　ん	なまえ

1　公園に 子どもが 何人か いました。７人　帰ったので，のこりが １８人に なりました。子どもは はじめに 何人 いたでしょうか。

(1) 図の （　　）に 数を 書きましょう。

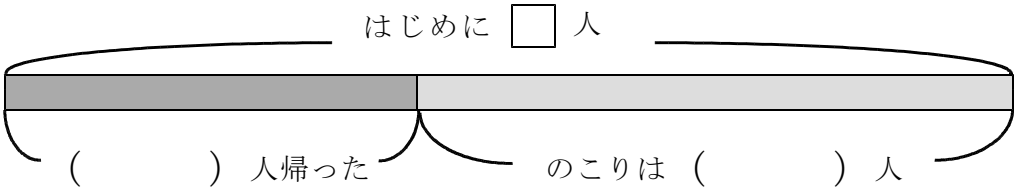

(2) 答えを もとめる しきと，答えを 書きましょう。

しき	答え　　人

2　教室に　何人か　います。　あとから１８人　来たので，みんなで２６人になりました。はじめに　何人　いましたか。

(1) 図の（　　）に 数を 書きましょう。

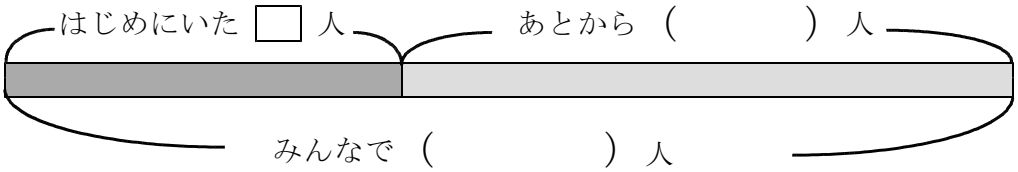

(2) 答えを もとめる しきと，答えを 書きましょう。

しき	答え　　人

わか杉「算数」シート 小２－15－③　　秋田県教育委員会

＜図をつかって考えよう③＞

こたえ

く　み	ば　ん	なまえ

1　公園に 子どもが 何人か いました。７人　帰ったので，のこりが １８人に なりました。子どもは はじめに 何人 いたでしょうか。

(1) 図の （　　）に 数を 書きましょう。

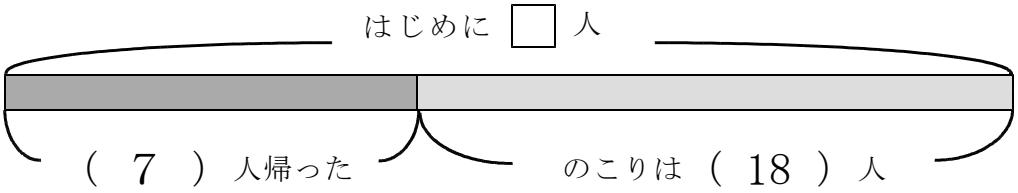

(2) 答えを もとめる しきと，答えを 書きましょう。

しき　　７＋１８＝２５	答え　２５　人

2　教室に　何人か　います。　あとから１８人　来たので，みんなで２６人になりました。はじめに　何人　いましたか。

(1) 図の（　　）に 数を 書きましょう。

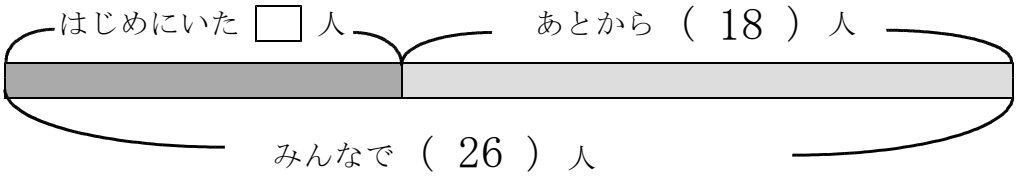

(2) 答えを もとめる しきと，答えを 書きましょう。

しき　　２６－１８＝８	答え　８　人

※おうちのひとにも　みてもらいましょう。