わか杉「算数」シート 小２－６－①　　秋田県教育委員会

＜水のかさをはかろう①＞

く　み	ば　ん	なまえ

1　ポットに 入る 水の　かさは，いくらでしょうか。たんいも書きましょう。

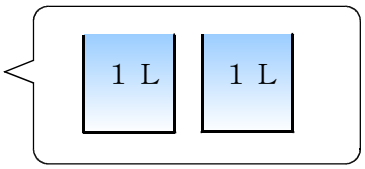

2　水とうに 入る 水の　かさは，いくらでしょうか。たんいも書きましょう。

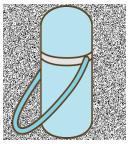

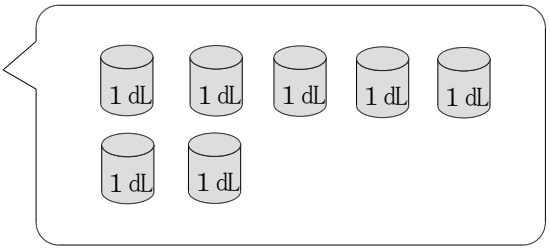

3　バケツに 入る 水の　かさは　何 dL ですか。



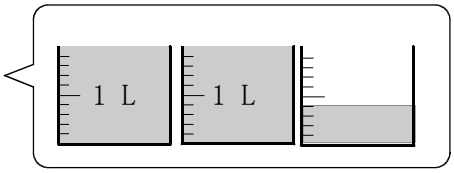

dL

わか杉「算数」シート 小２－６－①　　秋田県教育委員会

＜水のかさをはかろう①＞

こたえ

く　み	ば　ん	なまえ

1　ポットに 入る 水の　かさは，いくらでしょうか。たんいも書きましょう。

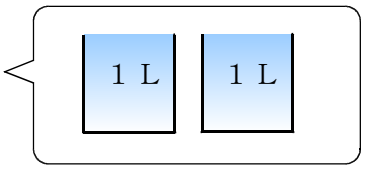

２　L

2　水とうに 入る 水の　かさは，いくらでしょうか。たんいも書きましょう。

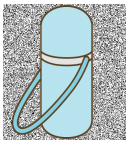

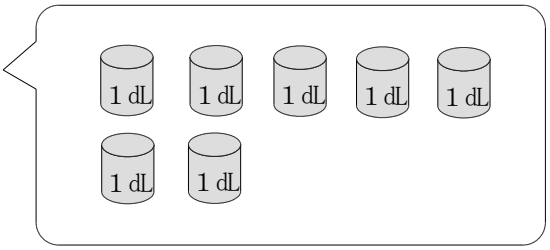

７　dL

3　バケツに 入る 水の　かさは　何 dL ですか。



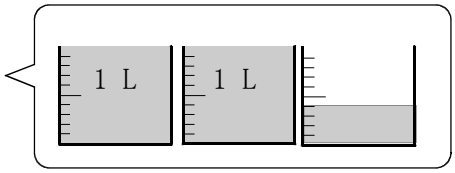

２４　dL

※おうちのひとにも　みてもらいましょう。