わか杉「算数」シート 小２－４－③　　秋田県教育委員会

＜長さをはかろう③＞

く　み	ば　ん	なまえ

1　**ア**の　線と　**イ**の　線の　長さを　くらべます。**ア**の　線は　１０cm　です。
アの　線と　**イ**の　線では，どちらの　線が　どれだけ　長いか　書きましょう。

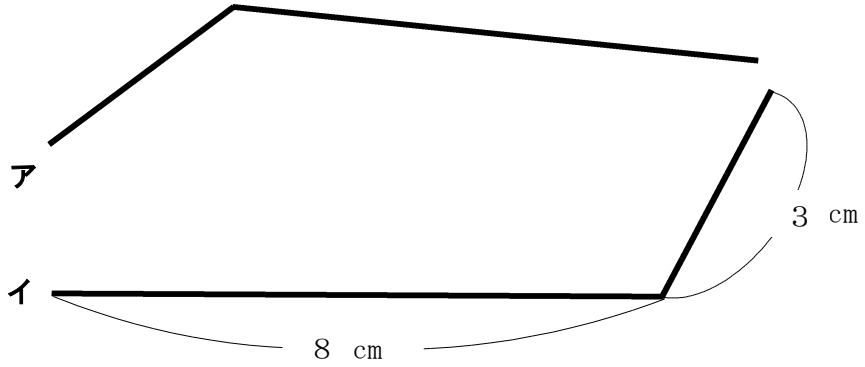

の線が　　cm　長い。

2　けんたさんと　みさとさんは　１年生にプレゼントする　しおりを　けしゴム　３こ分の長さで　作りました。２人の　しおりの　長さを　くらべたら　長さが　ちがっていました。しおりの　長さが　ちがった**わけ**を　書きましょう。

〈わけ〉

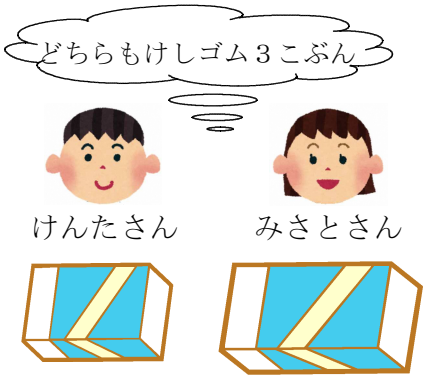

わか杉「算数」シート 小２－４－③　　秋田県教育委員会

＜長さをはかろう③＞

こたえ

く　み	ば　ん	なまえ

1　**ア**の　線と　**イ**の　線の　長さを　くらべます。**ア**の　線は　１０cm　です。
アの　線と　**イ**の　線では，どちらの　線が　どれだけ　長いか　書きましょう。

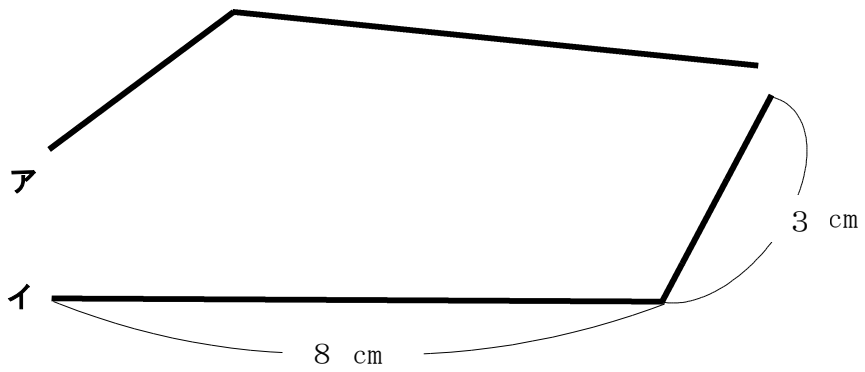

イ　の線が　１ cm　長い。

2　けんたさんと　みさとさんは　１年生にプレゼントする　しおりを　けしゴム　３こ分の長さで　作りました。２人の　しおりの　長さを　くらべたら　長さが　ちがっていました。しおりの　長さが　ちがった**わけ**を　書きましょう。

〈わけ〉

けしゴム１つ分の長さがちがうから

※ほかにも　いろいろな　こたえかたがあります。



※おうちのひとにも　みてもらいましょう。